平成３１年度一般入校試験（前期）　英語　問題用紙

※解答はすべて解答用紙に記入せよ。

A．次の各語の最も強く発音する部分を記号で答えよ。

1. in-dus-try　2. e-lec-tron-ics　3.com-fort　4. rel-a-tive　5. e-qual-i-ty

ア イ ウ　　ア イ ウ エ　　ア イ　　ア イ ウ　　ア イ ウ エ

B．次の語の下線部の発音が同じものを（　　）内から１つずつ選び記号で答えよ。

1. j<u>u</u>mp　(ア c<u>u</u>t　イ f<u>a</u>ther　ウ h<u>a</u>t)
2. c<u>o</u>ld　(ア c<u>au</u>ght　イ r<u>oa</u>d　ウ l<u>o</u>se)
3. finish<u>ed</u>　(ア burn<u>ed</u>　イ hat<u>ed</u>　ウ reach<u>ed</u>)
4. e<u>x</u>ist　(ア e<u>x</u>hibition　イ e<u>x</u>amine　ウ e<u>x</u>plain)
5. bl<u>oo</u>d　(ア fl<u>oo</u>d　イ f<u>oo</u>d　ウ sp<u>oo</u>n)

C．日本語の意味に合うように最も適切な語を各（　　）内より選び記号で答えよ。

1. 今日は何日ですか。
   What (ア day　イ date　ウ time) is it today?
2. メッセージをうけたまわりましょうか。
   Can I (ア tell　イ leave　ウ take) your message?
3. そのＴシャツは私には小さすぎる。
   The T-shirt is (ア too　イ much　ウ less) small for me.
4. まちがいなく見つかるでしょう。
   You can't (ア find　イ miss　ウ see) it.
5. ミルクと砂糖はご自由にお取りください。
   Help (ア free　イ like　ウ yourself) to milk and sugar.
6. ３番目の角を右に曲がりなさい。
   Turn (ア left　イ right　ウ up) at the third corner.
7. ご注文は何になさりますか。
   (ア May　イ Have　ウ Would) I take your order?

D．各（　　）内の最も適切な語を選び記号で答えよ。

1. I have a friend (ア who　イ which　ウ whose) mother is a pianist.
2. I am looking forward to (ア meet　イ meeting　ウ met) you.
3. I have a grandmother (ア live　イ living　ウ to live) in Hokkaido.
4. She went to New York (ア to study　イ for study　ウ studying) music.
5. French and English (ア is　イ are　ウ be) spoken in Canada.

Ｅ．次の文を読み、その内容にそって下記の問に答えよ。

Mr. Tomihiro Hoshino had been a physical-education teacher at a junior high school but lost the use of his arms and legs as a result of an accident which happened while he was teaching. After that, he started writing poetry and drawing pictures by holding a brush in his mouth. His exquisite work has deeply impressed many people.

Wedding Ring

She said, “I don’t want to wear a wedding ring
so that I may not hurt your face
when I wash your face in the morning.”
She said, “I don’t want to wear a wedding ring
so that I may not harm you
when I lift you up from the bed.”

Now in the morning sunlight
piercing through the lace curtain,
she comes to me and scoops cold water
with her hands from the washbowl.
I can see the drops of water falling
from the tips of her ten fingers.
They are more beautiful than gold or silver.

注) exquisite: すぐれた
scoop: すくう

問 1)本文の内容に合っているものには○を、異なるものには×をつけよ。

1. Mr. Tomihiro Hoshino taught physical-education.
2. He was born in Tochigi prefecture.
3. He began writing poems and drawing pictures after the serious accident.
4. He can paint pictures with holding a brush in his mouth.
5. His works haven’t impressed so many people.

問 2)次の問の答えとして最も正しいものを記号を答えよ。

1. Why didn’t she want to wear a wedding ring?
   ｱ Because she didn’t want to hurt his face.
   ｲ Because she didn’t hurt her own face.
   ｳ Because she wanted to buy a wedding ring.

2. What does she do in the morning?

ｱ She makes him breakfast every morning.

ｲ She comes to him and says hello.

ｳ She comes to him and scoops cold water.

3. What are more beautiful than gold or silver?

ｱ Her face.

ｲ A wedding ring.

ｳ The drops of water.

問 3)次の日本文の中で、本文の内容に合っているものを三つ選び記号で答えよ。

ｱ)星野富弘はかつて高校の教師であった。

ｲ)彼は交通事故にあった。

ｳ)彼は体育の授業中に事故に遭い、手足の自由を失った。

ｴ)結婚指輪を彼女は常にしていた。

ｵ)彼女は彼の顔を洗うときに指輪で傷つけたくなかった。

ｶ)彼は口にくわえた絵筆で絵を描いている。

Ｆ．次の文を読み、下記の問に答えよ。

Ikaho Onsen is located $_{1}$ halfway up Mt. Haruna at $_{2}$an elevation of 700 meters. It has a long history as its name even appears in $_{3}$the Japan's oldest surviving collection of poems, said to have been edited in the late seventh and eighth centuries. Here you can enjoy two types of onsen: "Kogane no Yu (Golden Water)", in which $_{4}$the iron contained in the water has oxidized to form a distinctive $_{5}$brownish-red color; and "Shirogane no Yu (Silver Water)", whose gushing was only discovered in recent years. The 300-meter long path with 365 $_{6}$stone steps at the center of the onsen resort creates a unique atmosphere. This onsen resort is also known as the birthplace of $_{7}$steamed bean-jam buns.

注) gushing: 噴出

問）この文の中で下線部1～7は何のことを言っているか。記号で答えよ。

1. ｱ 中腹　ｲ 中頃　ｳ 中継点
2. ｱ 幅 700m　ｲ 深度 700m　ｳ 標高 700m
3. ｱ 平家物語　ｲ 万葉集　ｳ 竹久夢二
4. ｱ 鉄分　ｲ アイロン　ｳ 銅
5. ｱ 茶色と赤のまだら模様　ｲ 茶色と赤の２種類　ｳ 茶褐色
6. ｱ 石段　ｲ 石の置物　ｳ 飛び石
7. ｱ 温泉の蒸気　ｲ 温泉饅頭　ｳ ジャムバター

G．日本文の意味を表すように（　　）内の語句を並べかえた時、２番目に来る語を記号で答えよ。
ただし、文頭に来る語も小文字にしてある。

1.彼女は私を１時間待たせた。
(ア waiting　イ me　ウ she　エ kept) for an hour.

2.日本の自動車は高性能である。
(ア Japan　イ the cars　ウ in　エ are　オ made) of high quality.

3.彼らは目を閉じてクラシック音楽を聴いた。
They listened to classical music (ア eyes　イ with　ウ closed　エ their).

4.率直に言って、外国産の野菜は嫌いなんです。
(ア I don't like　イ speaking,　ウ grown　エ vegetables　オ frankly) in other countries.

5.何と言ったらいいか分からなかったので、彼は黙っていた。
(ア say　イ what　ウ knowing　エ to　オ not), he remained silent.

H．次の各組の英文がほぼ同じ意味になるように、（　　）内の最も適する語を選び記号で答えよ。

1. He is good at playing the violin.
He (ア will　イ can　ウ should) play the violin well.

2. You eat more hamburgers than I eat.
I can't eat as many hamburgers (ア more　イ to　ウ as) you eat.

3. What a fast speaker he is!
(ア How　イ What　ウ May) fast he speaks!

4. You must not come with me.
(ア Can't　イ Haven't　ウ Don't) come with me.

5. Please close the window.
Would you (ア mind　イ like　ウ say) closing the window?

平成３１年度一般入校試験（前期）　英語　解答用紙

受験番号		氏名		得点	

A	1		2		3		4		5	
B	1		2		3		4		5	
C	1		2		3		4		5	
	6		7							
D	1		2		3		4		5	
E	問１	1		2		3		4		5	
	問２	1		2		3				
	問３									
F	1		2		3		4		5		6		7	
G	1		2		3		4		5	
H	1		2		3		4		5	

平成３１年度一般入校試験（前期）

数　学　Ⅰ　問　題　用　紙

１　次を計算せよ。

(1)　$3(\sqrt{3}-2)+2(\sqrt{3}+5)=$

(2)　$2\sqrt{8}-3\sqrt{18}+7\sqrt{2}=$

(3)　$(3a+2b)(3a-2b)=$

(4)　$(x-2)^3=$

2　次の式を因数分解せよ。

(1)　$6mt^2-3m^2t=$

(2)　$x^2+7x+10=$

(3)　$x^2-8x+16=$

(4)　$x^2+2x-y^2+2y=$

３　次の方程式・不等式を解け。

(1)　$3x+2=x-4$

(2)　$3x^2+x-2=0$

(3)　$4x-3<5$

(4)　$x^2+2x-15\leqq 0$

４　２次関数 $y=x^2+2x-3$ のグラフは放物線という図形になる。

(1)　この放物線の頂点の座標と軸の方程式を求めよ。

(2)　放物線 $y=x^2+2x-3$ の x 軸，y 軸との交点の座標を求めよ。

(3)　２次関数 $y=x^2+2x-3$ について $x=2$ のときの y の値を求めよ。

(4)　2 次関数 $y=x^2+2x-3$ で x の値の範囲が $-2\leqq x\leqq 3$ のとき，y の値の範囲を求めよ。

5　次のように，辺 AB=6，辺 BC=8，∠ABC=60°の⊿ABC がある。

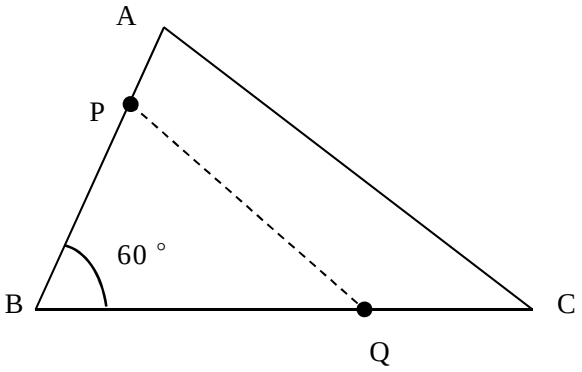

(1)　辺 AC の長さを求めよ。

(2)　⊿ABC の面積を求めよ。

(3)　辺 AB 上の BP=4 となる点 P と，辺 BC 上の点 Q を結ぶ線分 PQ が⊿ABC の面積を二等分するとき線分 BQ の長さを求めよ。

6　次の表は前橋市，桐生市，館林市について，2017 年の 365 日の各日の最高気温のデータを度数分布表にしたものである。（気象庁 Web ページ「過去の気象データ」により作成）

前橋市

階級（℃）	度数（日）
以上　未満	
－5 ～ 0	0
0 ～ 5	5
5 ～ 10	45
10 ～ 15	76
15 ～ 20	57
20 ～ 25	53
25 ～ 30	69
30 ～ 35	52
35 ～ 40	8
40 ～ 45	0
合　計	365

桐生市

階級（℃）	度数（日）
以上　未満	
－5 ～ 0	0
0 ～ 5	5
5 ～ 10	45
10 ～ 15	76
15 ～ 20	54
20 ～ 25	49
25 ～ 30	69
30 ～ 35	57
35 ～ 40	10
40 ～ 45	0
合　計	365

館林市

階級（℃）	度数（日）
以上　未満	
－5 ～ 0	0
0 ～ 5	3
5 ～ 10	33
10 ～ 15	83
15 ～ 20	58
20 ～ 25	46
25 ～ 30	69
30 ～ 35	53
35 ～ 40	20
40 ～ 45	0
合　計	365

(1)　次のヒストグラムは，前橋市，桐生市，館林市のいずれかである。３市名とヒストグラム A，B，C の組合せとして正しいのは①～⑥のどれか。

A

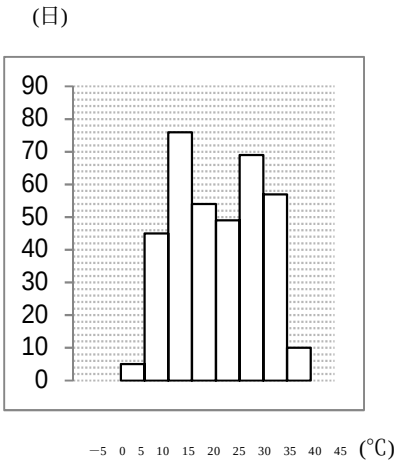

B

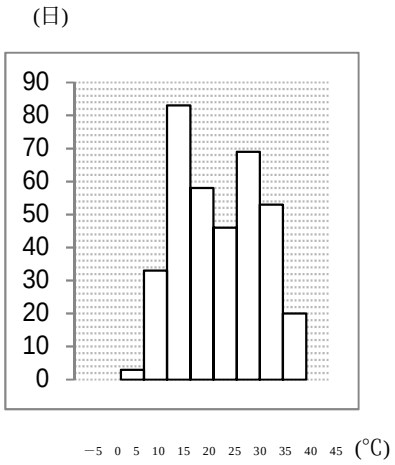

C

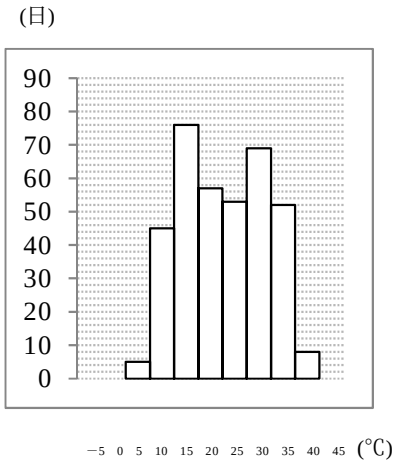

①　前橋市－A，桐生市－B，館林市－C　　②　前橋市－A，桐生市－C，館林市－B

③　前橋市－B，桐生市－A，館林市－C　　④　前橋市－B，桐生市－C，館林市－A

⑤　前橋市－C，桐生市－A，館林市－B　　⑥　前橋市－C，桐生市－B，館林市－A

(2)　次の箱ひげ図は，前橋市，桐生市，館林市のいずれかである。３市名と箱ひげ図 a，b，c の組合せとして正しいのは①～⑥のどれか。

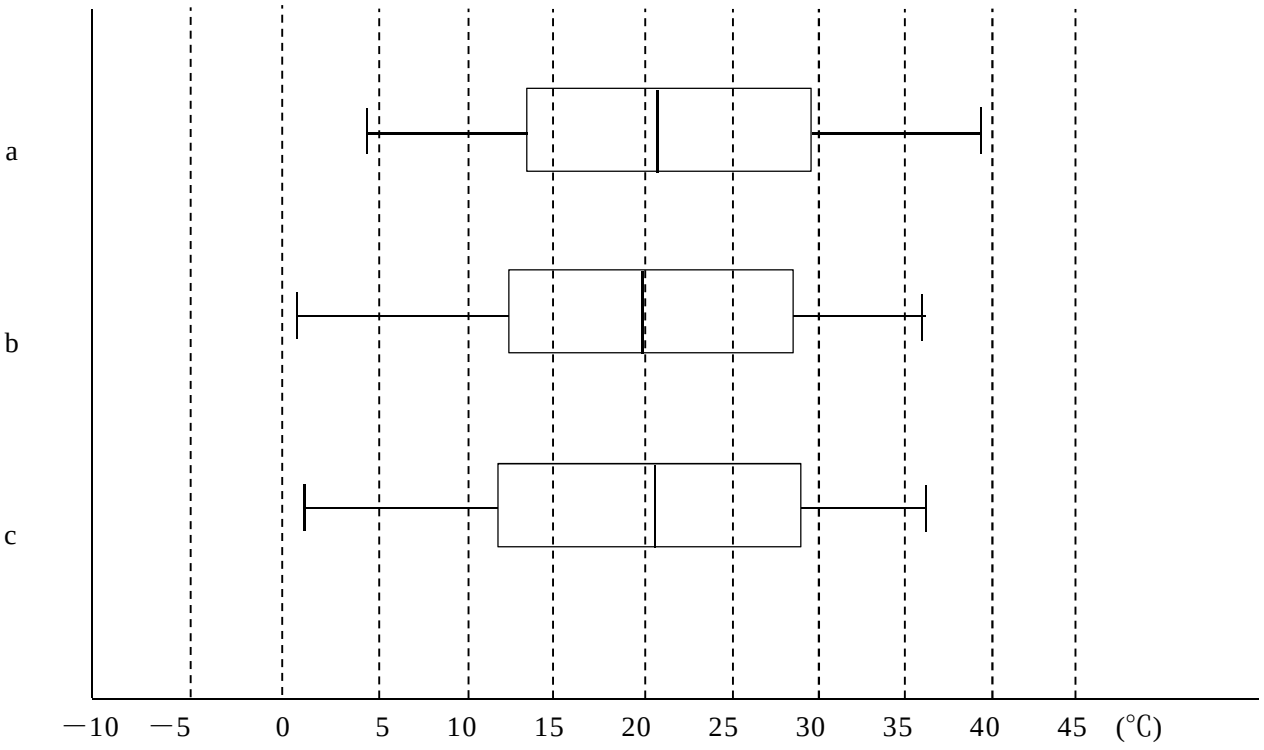

①　前橋市－a，桐生市－b，館林市－c　　②　前橋市－a，桐生市－c，館林市－b
③　前橋市－b，桐生市－a，館林市－c　　④　前橋市－b，桐生市－c，館林市－a
⑤　前橋市－c，桐生市－a，館林市－b　　⑥　前橋市－c，桐生市－b，館林市－a

平成３１年度一般入校試験（前期）

数　学　Ⅰ　解　答　用　紙

受験番号	氏　　名	得　点

1

(1)	
(2)	
(3)	
(4)	

2

(1)	
(2)	
(3)	
(4)	

3

(1)	x=
(2)	x=　　,
(3)	
(4)	

4

(1)	頂点の座標　　(　　,　　) 軸の方程式
(2)	x 軸との交点　(　　,　　), (　　,　　) y 軸との交点　　(　　,　　)
(3)	y=
(4)	≦y≦

5

(1)	AC＝
(2)	⊿ABC＝
(3)	BQ＝

6

(1)	
(2)	

平成 31 年度　一般入校試験（前期）　生物基礎　問題用紙

1.　下の図は、顕微鏡である生物の細胞を見た模式図である。この図をもとに、次の問いに答えよ。
図の g は e を拡大したものを表している。

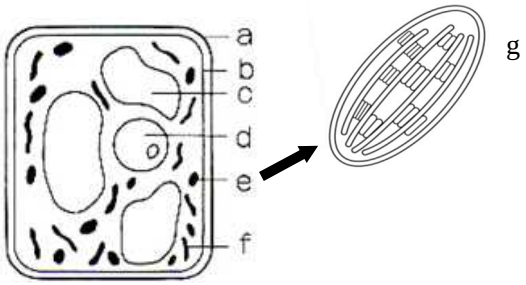

（問 1）上の模式図は、次の生物のうち、どの生物の細胞であるか、次の①～⑤の中から考えられるものをすべて選び、記号で答えよ。

①　ゾウリムシ　　②　カエル　　③　ムラサキツユクサ　　④　大腸菌　　⑤　オオカナダモ

（問 2）次の A～C に挙げる部位を、図の a～f より選び、それぞれの働きや特徴として最も適当なものを、次の①～⑤の中から 1 つずつ選び、記号で答えよ。また、適当なものがない場合には、解答欄に「なし」と答えよ。

A）核　　B）細胞膜　　C）ミトコンドリア

【働き・特徴】

①　1 重の膜の内部には、細胞液が含まれ、植物細胞で発達している。
②　1 重の膜で、動物細胞では、最外層を囲み、細胞の内外を仕切り、物質の出入りを調節する。
③　2 重の膜でできていて、有機物の合成の場となる。
④　2 重の膜からなり、内部に染色体を含んでいる。
⑤　細胞内部を満たしている液状の部分で、各種物質の分解や合成などが行われ流動している。

（問 3）図の g の構造物に含まれる物質として正しいものを、次の①～④の中から 1 つ選べ。

①　セルロース　　②　クロロフィル　　③　アントシアン　　④　ヘモグロビン

（問 4）細胞小器官の中には、他の生物が共生することによって細胞小器官となったものがある。上の図の中から、他の生物の共生によってできた細胞小器官を 2 つ選び、a～f の記号で答えよ。

（問 5）細胞をある観点から分類すると、原核細胞と真核細胞に分けることができる。次の①～⑥の中から、原核細胞の特徴として正しいものを 2 つ選べ。

①　核膜で囲まれた核が存在する。　　②　DNA をもっている。
③　細胞小器官をもつ。　　④　細胞の最外層は細胞壁で囲まれている。
⑤　タンパク質をもっていない。　　⑥　菌類は、すべてこの生物に属する。

（問 6）次の生物の中から、原核生物に属するものを、次の①～⑤の中からすべて選べ。

①　アメーバ　　②　大腸菌　　③　酵母菌　　④　シアノバクテリア　　⑤　ミドリムシ

2.　生物の代謝に関する次の文章を読み、次の問いに答えよ。

生物が生きていく上で、代謝は必要不可欠な営みである。代謝とは、生体内でおこる化学反応の総称であり、代謝を行うことはすべての生物に共通する特徴の 1 つである。代謝は大きく 2 つに分けることができる。体外から取り込んだ簡単な物質をもとに生物にとって必要な複雑な物質を合成する(　ア　)と、体内の有機物などの複雑な物質を簡単な物質に分解する(　イ　)に分けられる。こうした代謝にはエネルギーの出入りが伴う。代謝の反応のうち、(　ウ　)はエネルギーを放出し、(　エ　)はエネルギーを吸収する反応である。

（問 1）上の文章中の空欄ア～エに合う語句を、次の①～⑤より 1 つずつ選び答えよ。同じ語句を何回選んでもよい。

①　エネルギー代謝　　②　異化　　③　同化　　④　酸化　　⑤　還元

（問 2）同化に関する記述として最も適当なものを、次の①～④の中から 1 つ選べ。

①　呼吸によって、グルコースが分解される。

②　植物では、反応中において酵素が関与しない。

③　一般に、動物細胞の中でしか起こらない。

④　エネルギーを変換するのに、ATP が用いられる。

（問 3）下線部について、生物の共通性に関する記述として、最も適当なものを、次の①～④の中から 1 つ選べ。

①　生物の体は、多数の細胞で構成されている。

②　生物の中には、遺伝情報を DNA によって伝えるものと、RNA によって伝えるものがいる。

③　すべての生物は、無機物から有機物を合成することができる。

④　すべての生物は、生殖によって増殖する。

（問 4）下の図は、代謝の一つである光合成に関して、植物 A と植物 B における光の強さに対する二酸化炭素の吸収速度の関係を示したものである。この図に関する記述のうち、正しいものを次の①～④の中から 1 つ選べ。

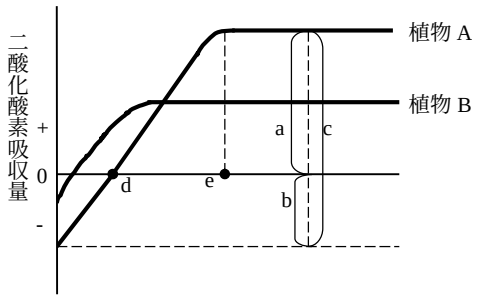

①　植物 A の光合成速度は、c の大きさから b の大きさを差し引いた a で示される。

②　植物 A は、d の位置では二酸化炭素吸収速度が 0 であるため、光合成を行っていない。

③　植物 A は、e よりも光の強さを強くしても二酸化炭素の吸収量は増加しないので、この点を光補償点という。

④　植物 A と植物 B を比較すると、呼吸速度が植物 B の方が小さいため、植物 B の方が光が少ない環境でも生育することができる。

3. 次の腎臓に関する文章を読み、続く問いに答えよ。

腎臓は、体液の浸透圧を調節する器官であり、(**あ**)や(**い**)によって、尿を生成することで、体液の浸透圧を一定に保つ。(**あ**)は、腎小体とよばれる部分で起こり、(**い**)は腎細管や(**1**)で起こる。体液の塩分濃度が上昇すると、(**2**)から(**3**)が分泌され、水の再吸収が促進される。水が再吸収されると、体内を流れる血流量が増えるため、血圧は(**4**)。また、体液の濃度が低下すると、(**5**)から(**6**)が分泌されて、(**7**)での塩類の再吸収が促進される。

（問 1）空欄あ・いに入る語句として正しいものを次の①～④の中から、それぞれ 1 つずつ選び、記号で答えよ。

① 抽出　② 再結晶　③ 再吸収　④ ろ過

（問 2）下線部に関して、この部位を形成するものを、次の①～⑩の中からすべて選び、記号で答えよ。

① 腎動脈　② 腎静脈　③ 肝門脈　④ 大動脈　⑤ 細尿管　⑥ 集合管
⑥ 糸球体　⑦ 毛様体　⑧ ボーマンのう　⑨ 腎単位　⑩ ぼうこう

（問 3）腎臓でろ過によって血液からこし出されない物質を、次の①～④の中から 1 つ選べ。また、ろ過されて生じる液体の名称を、次の⑤～⑧より 1 つ選べ。

① グルコース　② 尿素　③ タンパク質　④ 水
⑤ 尿　⑥ 血しょう　⑦ 組織液　⑧ 原尿

（問 4）空欄 1～7 に入る語句として最も適当なものを、次の①～⑮の中から、それぞれ 1 つずつ選び、記号で答えよ。ただし、同じものを何度選んでも構わない。

① 間脳視床下部　② 脳下垂体前葉　③ 脳下垂体後葉　④ すい臓　⑤ 副腎皮質
⑥ バソプレシン　⑦ アドレナリン　⑧ 糖質コルチコイド　⑨ 鉱質コルチコイド
⑩ 腎細管　⑪ 集合管　⑫ 糸球体　⑬ ボーマンのう　⑭ 上がる　⑮ 下がる

4. ホルモンとその調節に関する文章を読み、続く問いに答えよ。

ヒトのからだでは、体温の低下が感知されると、(**ア**)にある体温調節の中枢から命令が発せられ、(**イ**)神経を通じて、副腎髄質に伝えられる。副腎髄質からは(**ウ**)が分泌され、これにより心臓の拍動や代謝が(**エ**)され、発熱量が増加する。また、中枢からの命令により(**オ**)から甲状腺刺激ホルモンの分泌が促進される。甲状腺刺激ホルモンは、(**カ**)に作用して、(**キ**)の分泌を促進する。(**キ**)は、肝臓での代謝を(**ク**)させ、体温を上昇させる。

（問 1）上の文章中の空欄ア～クに適当な語を、次の①～⑭の中から 1 つずつ選び、それぞれ記号で答えよ。ただし、同じものを何度選んでも構わない。

① 間脳視床下部　② 脳下垂体前葉　③ 脳下垂体後葉　④ 交感　⑤ 副交感
⑥ アドレナリン　⑦ ノルアドレナリン　⑧ 促進　⑨ 抑制　⑩ 甲状腺
⑪ 副甲状腺　⑫ 副腎皮質　⑬ チロキシン　⑭ 糖質コルチコイド

（問 2）次の反応のうち、高温の血液を感知した時に起こる反応として、適当なものを、次の①～④の中から 1 つ選べ。

① 皮膚の毛細血管を収縮させる。　② 皮膚の立毛筋を収縮させる。
③ 汗の分泌が盛んになる。　④ 筋肉での代謝が促進される。

5.　次のバイオームに関する次の問いに答えよ。

（問 1）右の図は、年降水量と年平均気温によってバイオームを分類した図である。図中には主な 10 のバイオームが図示されているが、世界で見られる代表的な 11 のバイオームのうち 1 つが図示されていない。図示されていないバイオームを、次の①～⑤の中から 1 つ選べ。

①　夏緑樹林　　②　硬葉樹林　　③　針葉樹林

④　ツンドラ　　⑤　熱帯多雨林

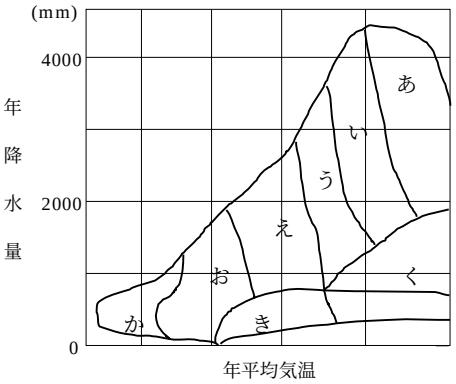

（問 2）バイオームの分布に大きく影響を与える環境要因として最も重要なものを次の①～⑤より 2 つ選べ。

①　降水量　　②　捕食者の数　　③　光　　④　気温　　⑤　二酸化炭素の濃度

（問 3）右の図中のあ～くのバイオームのうち、森林を形成しないものをすべて選び、あ～くの記号で答えよ。

（問 4）次の文章はあるバイオームについて述べたものである。それぞれに当てはまるものを図中よりあ～くの記号で選び、このバイオームの名称を次の①～⑤の中から 1 つずつ選べ。

【A】気温、降水量がともに高く、十分であるため、常緑樹が優占し、生物多様性が最も高い。

【B】温帯の乾燥した地域に分布し、丈の低いイネ科の草本の草原が見られる。

【C】ブナなどが優占し、冬の寒さに対し、葉を落葉させる特徴をもつ。

①　夏緑樹林　　②　照葉樹林　　③　ツンドラ　　④　針葉樹林　　⑤　熱帯多雨林　　⑥　ステップ

（問 5）日本に分布するバイオームの中で、主に九州から西日本にかけて見られる植物を、次の①～④の中から 1 つ選べ。

①　ヘゴ・アコウ　　②　アラカシ・メヒルギ　　③　ミズナラ・ブナ　　④　スダジイ・タブノキ

6. 生物に関する次の各問いについて、最も適当なものを、それぞれ①～④のうちから 1 つずつ選び、記号で答えよ。

（問 1）DNA が遺伝子の本体であるということを大腸菌を用いた実験により明らかにした研究者は誰か。

①　メンデル　　②　グリフィスとエイブリー　　③　ハーシーとチェイス　　④　ガードン

（問 2）血液に含まれる有形成分のうち、最も数が多い成分は何か。

①　赤血球　　②　白血球　　③　血小板　　④　リンパ球

（問 3）細胞性免疫において、抗原を直接攻撃する細胞はどれか。

①　好中球　　②　ヘルパーT 細胞　　③　キラーT 細胞　　④　B 細胞

（問 4）栄養段階の中で、光合成をおこなう生物を捕食する生物はどれか。

①　生産者　　②　一次消費者　　③　二次消費者　　④　分解者

（問 5）生態系内で循環せず、最終的に生態系外へ放出されてしまうのは、次の中のどれか。

①　炭素　　②　酸素　　③　窒素　　④　エネルギー

平成 31 年度　一般入校試験（前期）　生物基礎　解答用紙

受験番号	氏名	得点

1.

問 1	問 2						問 3	問 4		問 5		問 6
	A		B		C							
	図の記号	働き・特徴	図の記号	働き・特徴	図の記号	働き・特徴						

2.

問 1				問 2	問 3	問 4
ア	イ	ウ	エ			

3.

問 1		問 2	問 3		問 4						
あ	い		①～④	⑤～⑧	1	2	3	4	5	6	7

4.

問 1								問 2
ア	イ	ウ	エ	オ	カ	キ	ク	

5.

問 1	問 2		問 3	問 4						問 5
				A		B		C		

6.

問 1	問 2	問 3	問 4	問 5

「平成三十一年度一般入校試験（前期）　国　語　問題用紙」

一　次の文章（『『世間体』の文化再考』井上忠司）を読んで後の各問に答えなさい。

わが国の人々の社会的a規範の基本は、おおむね「世間」に準拠して、はずかしくない行動をすることであった。唯一絶対神（超越者）をもたないわが国の人々は、「世間の眼」から見られたときの自分をはじるという、きわめて状況的な倫理を内面に培ってきた。①普遍的な価値規準をもたなかったので、「世間」の規準から自分だけがb逸脱することのないように、「世間」と自分との間に生じるズレを、絶えず微調整しながら生きてきたのである。それが、②「世間なみ」に生きるということにほかならない。

【　　A　　】を信じている西洋の人達は、いわば神にいつも見られているという意識を通して、自己規制を働かせてきた。たとえ他者の「まなざし」がcカイザイしていなくとも、つよい自己規制を働かせることができたのは、おそらく、③そのためである。それに対して、わが国の人々は、【B】の人達のまなざし（世間の眼）にとらわれるという状況の過程のなかで、④つよい自己規制を働かせてきたのである。

このような自己規制のあり方の違いは、何かを意志決定する場合にも、およそ、次のような違いとして現れるであろう。私達は、概して、まわりの人達のまなざしをうかがいながら、他者の期待に同調していく過程のなかで、自分の意志をしだいにかためてゆこうとする。そんな意志決定のあり方は、【　　C　　】、それからまわりの人達にその結果を説得してゆこうとする生き方と、その方向性がまことに対照的である。

ところで、わが国の状況をみてみると、西洋の近代的dジガの思想にふれて以来、世間の眼をeコイに拒否しようとする風潮が、徐々に現れてきたように思われる。殊に戦後は、その風潮がつよい。その際「つよい自我」（自律性）が育たないままに、「世間」の人達のまなざしのみを拒否しようとするならば、人々の前には大きな⑤陥穽がまっていることであろう。

問一　―線①「普遍」、⑤「陥穽」の意味として適当なものを、次の中からそれぞれ選びなさい。

①「普遍」
ア　特別に設定されたもの
イ　誰でもが共通に持つ考え
ウ　広く一般に当てはまる様子
エ　どこにでも遍くあるもの

⑤「陥穽」
ア　落とし穴
イ　辛い状況
ウ　幸せなこと
エ　落胆

問二　―線②「世間なみ」に生きるということ」は突き詰めれば、どうすることか。設問の前の文中から、十四字で書き抜きなさい。

問三　―線③「そのため」が指す内容として適当なものを、次の中から選びなさい。

ア　神にいつも見られているという意識のため。
イ　強い自己規制を働かせることができるため。
ウ　普遍的な価値基準をもたなかったため。
エ　世間と自分との間に生じるズレのため。
オ　世間に左右されないつよいジガがあるため。

問四　―線④「つよい自己規制を働かせてきた」とあるが、日本人は常に何を意識して自己規制を働かせてきたのか、そのことに該当する四字の言葉を文中から抜き出して、書きなさい。

問五　【　】Aには、五字の語句が、また、【　】Bには二字の語句が入るが、該当するものを文中からそれぞれ抜き出して、書きなさい。

問六　【　】Cに入る表現として適当なものを、次の中から選びなさい。

ア　まわりの人達の意向をまとめて、
イ　自分の意志を決めて、
ウ　他者の意志を聞いて、
エ　まわりの人達一人一人の意志を尊重して、
オ　自分の意志を強く持ち、

問七　〜線a〜eの漢字は読みを、カタカナは漢字をそれぞれ書きなさい。

二　次の小説（『泥の河』宮本　輝）を読んで後の各問に答えなさい。

信雄も喜一も、火薬を詰めて飛ばすロケットのおもちゃが欲しかったのである。恵比須神社のａ縁日でも売っていたから、きっと今夜も売っているはずであった。

喜一は硬貨をポケットにしまい、信雄の手を握った。

「はぐれたらあかんで」

人混みを縫いながら、二人は露店を一軒一軒見て歩いた。

水飴屋の前に立ったとき、

「一杯だけ買うて、半分ずつ飲めへんか？」

と喜一がｂサソった。ロケットを買ってからにしようという信雄の言葉で①しぶしぶその場を離れたが、こんどは焼きイカ屋の前でも同じことをせびった。飲み物や食べ物を売る店の前に来ると、喜一は必ず信雄の肘を引っぱってさそうのだった。

「きっちゃん、ロケット欲しいことないんか？」

喜一の手を振りほどくと、信雄は怒ったように言った。

「ロケットも欲しいけど、僕、いろんなもん食べてみたいわ」

口をとがらせて、喜一は脛の虫さされのあとを強く掻きむしった。

いつのまにか空はすっかり暗くなり、商店街に吊るされたちょうちんにも裸電球にも灯が入って、急激に増してきた人の群れがその下で押し合いへし合いしている。

②すねたふりをして一歩も動こうとしない喜一を③尻目に、信雄はひとり境内に向かって歩きだした。歩き始めると、人波に押されて立ち停まることもできなくなってしまった。喜一の顔が遠ざかり見えなくなった。

信雄は慌てて引き返そうとした。色とりどりのｃ浴衣や団扇や、汗や化粧の匂いが、大きな流れとなって信雄を押し返す。やっとの思いで元の場所に戻って来たが、喜一の姿はなかった。

信雄はぴょんぴょん跳びあがってまわりを見渡した。いつのまにすれちがったのか、人波にもまれている喜一の顔が、神社の入口のところで見え隠れしていた。

「きっちゃん、きっちゃん」

信雄の声は、子供たちの喚声や祭り囃子に消されてしまった。喜一は小走りで先へ先へと進んでいく。ｄソウトウ狼狽して信雄を捜しているふうであった。

信雄はおとなたちの膝元をかきわけ、必死で走った。何人かの足を踏み、ときどき怒声を浴びて突き飛ばされたりした。境内の手前にある風鈴屋の前でやっと喜一に追いついた。④赤や青の短冊が一斉に震え始め、それと一緒に、何やら胸の底に突き立ってくるような冷たい風鈴の音に包み込まれた。

信雄は喜一の肩を摑んだ。喜一は泣いていた。泣きながら何かわめいた。

「えっ、なに？　どないしたん？」

よく聞きとれなかったので、信雄は喜一の口元に耳を寄せた。

「お金、あらへん。お金、落とした」

風鈴屋の屋台からこぼれ散る夥しい短冊の影が、喜一のｅ歪んだ顔に映っていた。

⑤信雄と喜一はもう一度商店街の端まで行き、地面を睨みながらじぐざぐに歩いた。再び風鈴屋の前に戻って来たが、落とした硬貨は一枚もみつからなかった。喜一のズボンのポケットは、両方とも穴があいていた。

問一　━ 線①「しぶしぶ」、③「尻目に」の意味として適当なものを、次の中からそれぞれ選びなさい。

①「しぶしぶ」
ア　意欲的に行動する様子
イ　中途半端で動きのとれない様子
ウ　どうしていいかわからない様子
エ　心ならずともその事をする様子

③「尻目に」
ア　時々振り返って進む様子。
イ　相手に構わずに行動する様子。
ウ　背後に注意しつつ行動する様子。
エ　他人の行動に便乗して物事をする様子。

問二　━ 線②「すねたふりをして一歩も動こうとしない喜一」とあるが、なぜ喜一は「すねたふりをして」一歩も動こうとしないのか、その理由として適当なものを、次の中から選びなさい。

ア　喜一は強く掻きむしった脛の虫さされのあとが気になって、動くどころでなかった。
イ　喜一は何も飲んだり食べたりしていないのに、信雄はロケットのおもちゃを買ったから。
ウ　喜一は何か飲んだり食べたりしたいのに、信雄がそれを許してくれないから。
エ　喜一は欲しいものもあるが、それ以上に歩き疲れて動きたくなかったから。

問三　━ 線④「赤や青の短冊が一斉に震え始め、それと一緒に、何やら胸の底に突き立ってくるような冷たい風鈴の音に包み込まれた。」の描写が暗示するものとして適当なものを、次の中から選びなさい。

ア　信雄に捜しあてられて落ち着きを取り戻す喜一の安心。
イ　信雄と喜一の二人に生じた、埋めがたい心の溝。
ウ　伝統的な夏祭りらしい華やかさと爽やかさ。
エ　何かとんでもない事件が起こりそうないやな予感。

問四　━線⑤「信雄と喜一はもう一度商店街の端まで行き、地面を睨みながらじぐざぐに歩いた。」とあるが、それはなぜか、十五字以内で説明しなさい。

問五　文中から時間の推移を表した表現を探し、その最初の十字を抜き出しなさい。

問六　〰線a～eの漢字は読みを、カタカナは漢字をそれぞれ書きなさい。

三　次の俳句を読んで後の各問に答えなさい。

A　万緑（ばんりょく）の中や吾子（あこ）の歯生え初むる　　中村草田男
B　残雪やごうごうと吹く松の風　　村上鬼城
C　玉のごとき小春日和を授かりし　　松本たかし
D　咳をしても一人　　尾崎放哉

問一　次の①～③に該当する俳句をそれぞれ選びなさい。
①　体言止め　②　直喩法　③　中間切れ

問二　Dのような俳句を何というか、次のから選びなさい。
①　型破り俳句　②　字数無視俳句　③　不定形俳句　④　自由律俳句　⑤　字足らず俳句

問三　A～Cの俳句の季語と季節を書きなさい。

四　次の①～⑤のことわざの（　　）に入る動物名を書き（漢字、ひらがなのどちらでもよい）、その意味をそれぞれ後から選びなさい。
①　大山鳴動して（　　）一匹　②　（　　）も木から落ちる
③（　　）を逐う者は山を見ず　④　（　　）に引かれて善光寺参り
⑤　能ある（　　）は爪を隠す

ア　部分にこだわり全体を見失う　イ　名人も時には失敗する
ウ　動機はともあれ、結果良し　エ　騒いだわりに大したことない
オ　悪党の仲間　カ　能力のある人はむやみにひけらかさない

五　次①～⑤の語の意味を、ア、イからそれぞれ選なさい。
①　雅量（ア　広い心　イ　風流な心）
②　含蓄（ア　意味合いが深い　イ　知識を蓄える）
③　吹聴（ア　言いふらす　イ　大げさに言う）
④　風聞（ア　うわさ　イ　内緒話）
⑤　卓見（ア　公平な意見　イ　すぐれた意見）

六　次の①、②の文は、いくつの文節から成り立っているか、文節数を算用数字で書きなさい。また、③、④の文は主語の文節を、⑤の文は述語の文節をそれぞれ選びなさい。

①　明日は山田さんも遠足にいくそうだ。
②　さあ、よくわかりませんね。
③　アコップをイ割ったのはウ僕のエ弟です。
④　ア人間にとってイもっともウ大切なエものはオ愛情です。
⑤　ア誰ですか、イここにウ本をエ置いたのは。

「平成三十一年度一般入校試験（前期）　国語　解答用紙」

受験番号	氏名	得点

一

問一
①
⑤

問二

問三

問四

二

問一
①
③

問二

問三

問四

問五
A
B

問六

問七
a
b
c
d
e

問五

問六
a
b
c
d
e

三

問一
①
②
③

問二

問三
A
季語
季節
B
季語
季節

C
季語
季節

四

①
②
③

④
⑤

五

①
②
③
④
⑤

六

①
②
③
④
⑤